MINISTERUL EDUCAȚIEI

SOCIETATEA DE GEOGRAFIE DIN ROMÂNIA

EDITURA CD PRESS www.cdpress.ro

Terra

CONCURSUL ȘCOLAR NAȚIONAL DE GEOGRAFIE „TERRA”

ETAPA NAȚIONALĂ

14 mai 2022

CLASA a VII-a



Subiectul I (22 puncte)

Pe harta de mai jos sunt marcate tipuri de climă (cu cifre) și elemente de hidrografie (cu litere) din Africa. Imaginile alăturate prezintă elemente biogeografice specifice acestui continent.







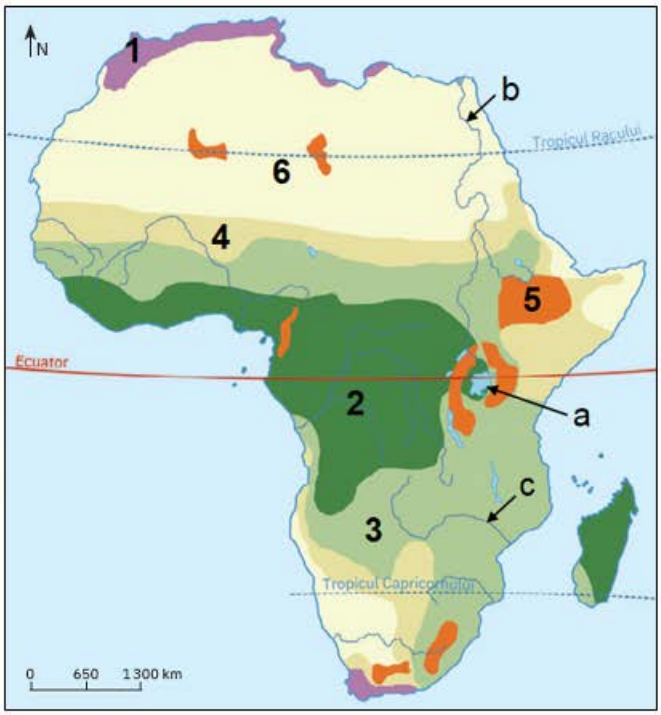







A. Asociază elementele biogeografice prezentate în imagini cu tipurile de climă cărora le corespund. Scrie în casetele libere cifrele cu care sunt marcate pe hartă tipurile de climă corespunzătoare.

imaginea **A** ☐ imaginea **B** ☐ imaginea **C** ☐

imaginea **D** ☐ imaginea **E** ☐ imaginea **F** ☐

12 puncte

B. Citește, cu atenție, afirmațiile de mai jos. Stabilește dacă aceste afirmații sunt adevărate sau false. Selectează cerculeț de lângă litera corespunzătoare răspunsului corect.

1. La gura de vărsare a fluviului marcat, pe hartă, cu litera **b** s-a format un estuar.

○ **a.** Adevărat ○ **b.** Fals **2 puncte**

2. Lacul marcat, pe hartă, cu litera **a** este de origine tectonică.

○ **a.** Adevărat ○ **b.** Fals **2 puncte**

3. Baobabul face parte din vegetația specifică tipului de climă marcat, pe hartă, cu cifra **5**.

○ **a.** Adevărat ○ **b.** Fals **2 puncte**

4. Fluviul Zambezi este marcat, pe hartă, cu litera **c**.

○ **a.** Adevărat ○ **b.** Fals **2 puncte**

5. Relieful regiunilor în care este specific tipul de climă marcat cu cifra **6** prezintă forme cunoscute sub numele de hamade.

○ **a.** Adevărat ○ **b.** Fals **2 puncte**

Subiectul II (12 puncte)

Analizează, cu atenție, harta de mai jos și scrie în casetele libere litera sau cifra care completează afirmațiile următoare:

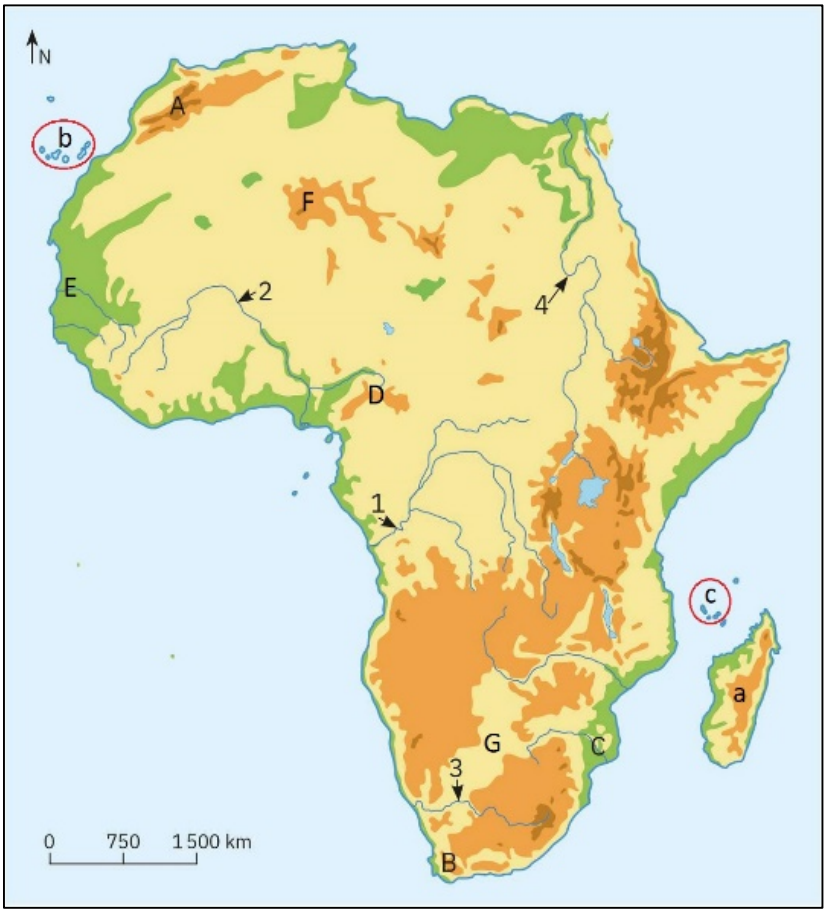

1. Este extinsă pe teritoriul statului Algeria unitatea de relief marcată, pe hartă, cu litera ☐
2. Fluviul Senegal străbate unitatea de relief marcată, pe hartă, cu litera ☐
3. Este de origine continentală insula marcată, pe hartă, cu litera ☐
4. Munții Capului sunt marcați, pe hartă, cu litera ☐
5. Munții Camerun sunt marcați, pe hartă, cu litera ☐
6. Fluviul Orange este marcat, pe hartă, cu cifra ☐

Subiectul III (32 puncte)

A. Analizează, cu atenție, imaginile și apoi selectează cerculeț de lângă litera corespunzătoare răspunsului corect, pentru fiecare dintre următoarele afirmații:

1. Delta din imaginea **1** s-a format la gura de vărsare a fluviului:



- ○ **a.** Enisei
- ○ **b.** Gange
- ○ **c.** Lena
- ○ **d.** Obi

2 puncte

2. Tipul de locuințe prezentat în imaginea **2** este specific comunităților umane din statul numit:



- ○ **a.** Cambodgia
- ○ **b.** Iran
- ○ **c.** Libia
- ○ **d.** Mongolia

2 puncte

3. În imaginea **3** este prezentată o așezare rurală specifică pentru statul numit:



- ○ **a.** Afganistan
- ○ **b.** Africa de Sud
- ○ **c.** Vietnam
- ○ **d.** Tunisia

2 puncte

4. Tipul de vegetație prezentat în imaginea **4** se numește:



- ○ **a.** pădure ecuatorială
- ○ **b.** savană
- ○ **c.** stepă
- ○ **d.** tundră

2 puncte

5. Specia faunistică din imaginea **5** trăiește în:



- **a.** Congo
- **b.** Etiopia
- **c.** Indonezia
- **d.** India

2 puncte

B. Citește afirmațiile următoare și selectează cerculeț de lângă litera corespunzătoare răspunsului corect.

1. Aliniamente de gheizere apar în peninsula:

a. Arabă **b.** Asia Mică **c.** India **d.** Kamceatka **2 puncte**

2. Teritoriul exclavă ”Nahicevan” aparține statului:

a. Timorul de Est **b.** Lesotho **c.** Azerbaidjan **d.** Pakistan **2 puncte**

3. Fac parte din ultimul trib preneolitic din lume:

a. Marii Andamanezi **b.** Sentinelezii **c.** Jarawa **d.** Onge **2 puncte**

4. Locuințele construite din bârne de lemn, din regiunile forestiere, poartă denumirea de:

a. karaan **b.** izbă **c.** iglu **d.** iurtă **2 puncte**

5. Seikan, cel mai lung tunel din lume, face legătura între insulele:

a. Shikoku și Honshu **b.** Hokaido și Kyushu
c. Honshu și Hokaido **d.** Kyushu și Honshu **2 puncte**

C. Imaginile de mai jos sunt reprezentative pentru orașele: Cairo, Cape Town, Hong-Kong, Kinshasa, Kuala-Lumpur, Lagos.

Identifică, pe baza caracteristicilor prezentate, orașul ilustrat în fiecare imagine și selectează cerculeț din dreptul numelui acestuia.

Imaginea **a**:

- Cairo
- Cape Town
- Hong-Kong
- Kinshasa
- Kuala-Lumpur
- Lagos

2 puncte



A doua metropolă a Africii, Golful Guineei

Imaginea **b**:

- Cairo
- Cape Town
- Hong-Kong
- Kinshasa
- Kuala-Lumpur
- Lagos

2 puncte



Capitala R.D. Congo, malul stâng al fluviului Congo

Imaginea **c**:

- Cairo
- Cape Town
- Hong-Kong
- Kinshasa
- Kuala-Lumpur
- Lagos

2 puncte



Cel mai mare oraș al Africii, piramide

Imaginea **d**:

- Cairo
- Cape Town
- Hong-Kong
- Kinshasa
- Kuala-Lumpur
- Lagos

2 puncte



Capitală legislativă, Capul Bunei Speranțe

Imaginea **e**:

- Cairo
- Cape Town
- Hong-Kong
- Kinshasa
- Kuala-Lumpur
- Lagos

2 puncte



Fostă colonie britanică, tehnologie de vârf

Imaginea **f**:

- ○ Cairo
- ○ Cape Town
- ○ Hong-Kong
- ○ Kinshasa
- ○ Kuala-Lumpur
- ○ Lagos



Turnurile Petronas, islamism

2 puncte

Subiectul IV (8 puncte)

Se dă următoarea listă de elemente hidrografice:

a - Baikal,
b - Victoria,
c - Tanganyika,
d - Obi,
e - Chiang-Jiang,
f - Gange,
g - Nil,
h - Aral.

Patru dintre elementele hidrografice din această listă sunt descrise în enunțurile următoare (marcate cu cifrele 1, 2, 3 și 4). Identifică elementul hidrografic și scrie în fiecare casetă liberă litera corespunzătoare acestuia.

1. Cea mai renumită și spectaculoasă cădere de apă situată pe fluviul Zambezi, numită de băștinași Mosi-oa-Tunya („cascada care fumegă și tună”), cu o înălțime de 122 m și o lățime de 1800 m. ☐

2 puncte

2. Reprezintă simbolul lacurilor Africii, fiind cel mai vechi lac african, de origine tectonică, format acum aproximativ 12 milioane de ani, și totodată cel mai mare rezervor de apă dulce de pe acest continent, care găzduiește peste 4 500 de specii de plante și animale, dintre care jumătate sunt endemice. ☐

2 puncte

3. Lungimea și mai ales izvoarele acestui fluviu au fost de-a lungul timpului subiecte de discuție în rândul specialiștilor; are direcția de curgere de la sud la nord și se varsă în Marea Mediterană printr-o deltă. ☐

2 puncte

4. Fluviul sfânt al hindușilor, considerat simbol al culturii și civilizației indiene, izvorăște din centrul Munților Himalaya și formează la vărsarea în Golful Bengal cea mai mare deltă de pe glob. ☐

2 puncte

Subiectul V (16 puncte)

Analizează harta de mai jos pe care sunt marcate state (cu litere de la A la F), strâmtori (cu litere de la a la c) și insule/grup de insule (cu cifre de la 1 la 5).

Scrie, în casetele libere, literele sau cifrele care completează afirmațiile următoare:

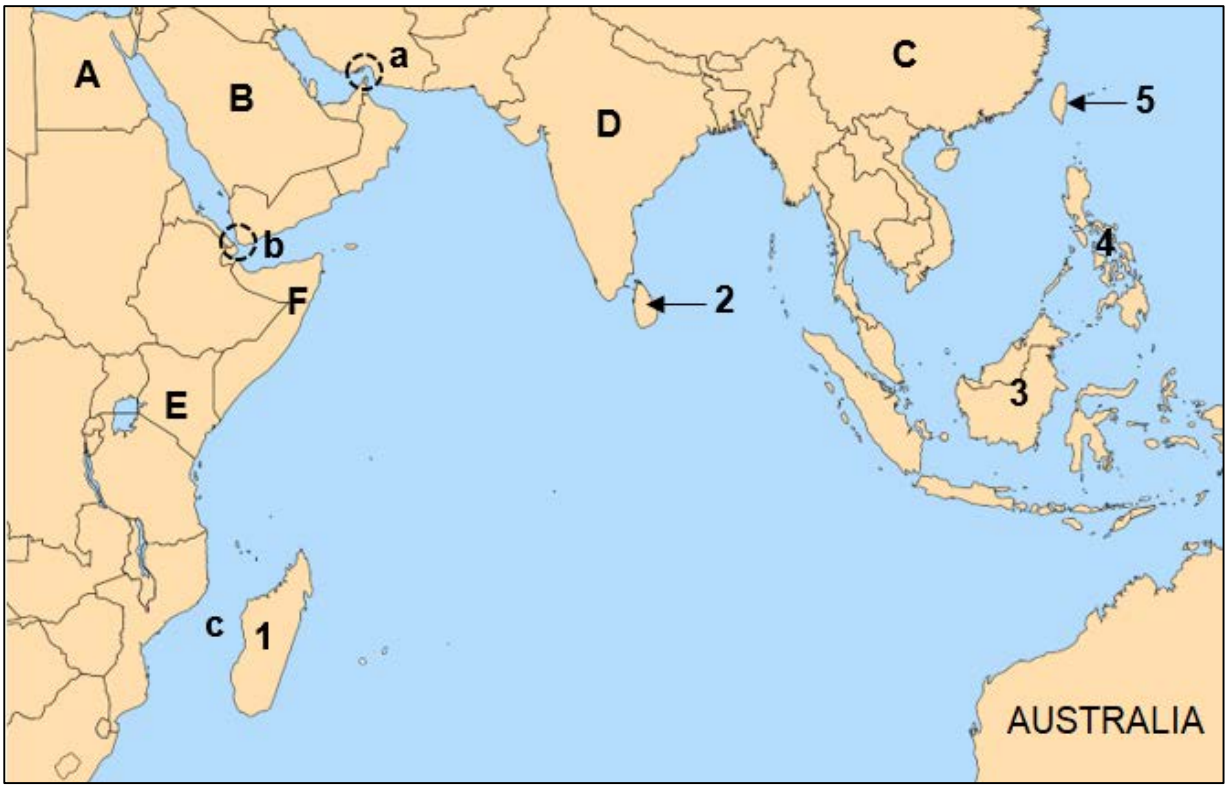

1. Culturile de mirodenii - îndeosebi vanilia - sunt specifice țării cu capitala la Antananarivo, oraș situat pe insula marcată, pe hartă, cu cifra: ☐

2. Strâmtoarea Ormuz este marcată, pe hartă, cu litera: ☐

3. Are capitala la Manilla statul localizat în arhipelagul marcat, pe hartă, cu cifra: ☐

4. Munți vulcanici de peste 5 000 m se află în statul marcat, pe hartă, cu litera: ☐

5. Cele mai importante rezerve de hidrocarburi se găsesc pe teritoriul statului asiatic marcat, pe hartă, cu litera: ☐

6. Statul situat în „Cornul Africii” este marcat, pe hartă, cu litera: ☐

7. Hinduismul este religia predominantă în statul marcat, pe hartă, cu litera: ☐

8. Din punct de vedere politic, este împărțită între trei state insula marcată pe hartă cu cifra: ☐

Felicitări !!! Ai ajuns la finalul testului. Acum îți ofer și eu ***10 puncte****.*
Pentru a vedea câte puncte ai acumulat, dă click pe butonul FINALIZARE.
ATENŢIE*! Verifică-ți întâi răspunsurile, deoarece nu vei mai avea posibilitatea să le modifici.*
Indiferent de punctajul final, ești prietenul meu isteț. Mă bucur că te-am cunoscut și să fii mândru că ai participat la acest concurs.
Sper să ne revedem și la anul.
Paaa!

